Nombre: _____ **Fecha:** _____

ÁNGULOS

Busca en esta sopa de letras el nombre de estos ocho ángulos, clasificados por la amplitud de su abertura y por su posición.
Ponle el nombre a todos en el letrero que hay debajo de cada uno.

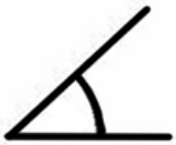

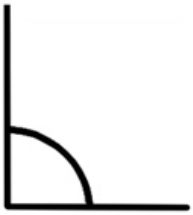

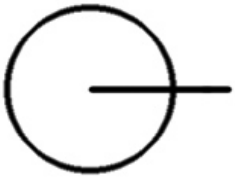

V	D	Q	U	Q	O	E	A	Q	S	G	S	I	J	Z
J	N	H	T	W	Z	Q	A	J	W	O	Q	A	Q	N
R	A	K	I	E	X	K	H	O	V	F	K	A	O	B
Q	H	D	Z	A	F	H	V	I	G	N	Q	N	J	N
U	U	M	Y	R	H	P	T	W	D	X	B	O	T	D
M	J	S	R	A	G	U	D	O	X	L	W	H	X	Z
Z	D	I	F	W	C	V	T	D	E	A	L	G	M	D
D	P	J	D	E	J	E	J	X	L	J	D	C	F	R
I	R	J	S	L	L	A	N	O	C	R	G	S	U	R
I	B	N	O	P	U	E	S	T	O	S	U	T	B	O
R	O	P	M	Z	A	D	L	A	E	K	U	O	Y	G
C	T	O	U	A	E	S	Z	V	T	S	K	S	O	X
F	C	C	A	C	A	L	L	O	U	K	A	Q	C	V
U	E	E	C	L	P	I	L	E	G	A	V	E	H	F
M	R	R	P	V	D	O	N	L	E	U	B	T	A	F

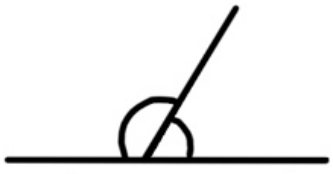

www.actiludis.com